Лист 5

1. На сколько нулей заканчивается произведение первых 100 натуральных чисел?

2. Аня, Вера и Галя ели конфеты. Аня и Вера съели на 11 конфет больше Гали, а Аня и Галя — на 7 конфет больше Веры. Сколько конфет съела Аня?

3. В квадрате 5x5 вырезан центральный квадрат 1x1. Разрежьте полученную фигуру по сторонам квадратов на 4 равные части. Найдите 5 разных способов.



4. Саша и Коля играли в баскетбол. Саша из 10 бросков имел 6 попаданий в кольцо, а Коля из 8 бросков имел 5 попаданий. Чей результат лучше?

5. *Задача С.А. Рачинского.* В школе равное число девочек и мальчиков. Я принес 234 ореха, и каждому мальчику досталось по 5 орехов, каждой девочке по 4 ореха. Но девочки обиделись, и в другой раз я принес столько орехов, что всем досталось по 6. Сколько орехов я принес?

Лист 5

1. На сколько нулей заканчивается произведение первых 100 натуральных чисел?

2. Аня, Вера и Галя ели конфеты. Аня и Вера съели на 11 конфет больше Гали, а Аня и Галя — на 7 конфет больше Веры. Сколько конфет съела Аня?

3. В квадрате 5x5 вырезан центральный квадрат 1x1. Разрежьте полученную фигуру по сторонам квадратов на 4 равные части. Найдите 5 разных способов.



4. Саша и Коля играли в баскетбол. Саша из 10 бросков имел 6 попаданий в кольцо, а Коля из 8 бросков имел 5 попаданий. Чей результат лучше?

5. *Задача С.А. Рачинского.* В школе равное число девочек и мальчиков. Я принес 234 ореха, и каждому мальчику досталось по 5 орехов, каждой девочке по 4 ореха. Но девочки обиделись, и в другой раз я принес столько орехов, что всем досталось по 6. Сколько орехов я принес?

Лист 5

1. На сколько нулей заканчивается произведение первых 100 натуральных чисел?

2. Аня, Вера и Галя ели конфеты. Аня и Вера съели на 11 конфет больше Гали, а Аня и Галя — на 7 конфет больше Веры. Сколько конфет съела Аня?

3. В квадрате 5x5 вырезан центральный квадрат 1x1. Разрежьте полученную фигуру по сторонам квадратов на 4 равные части. Найдите 5 разных способов.



4. Саша и Коля играли в баскетбол. Саша из 10 бросков имел 6 попаданий в кольцо, а Коля из 8 бросков имел 5 попаданий. Чей результат лучше?

5. *Задача С.А. Рачинского.* В школе равное число девочек и мальчиков. Я принес 234 ореха, и каждому мальчику досталось по 5 орехов, каждой девочке по 4 ореха. Но девочки обиделись, и в другой раз я принес столько орехов, что всем досталось по 6. Сколько орехов я принес?

Лист 5

1. На сколько нулей заканчивается произведение первых 100 натуральных чисел?

2. Аня, Вера и Галя ели конфеты. Аня и Вера съели на 11 конфет больше Гали, а Аня и Галя — на 7 конфет больше Веры. Сколько конфет съела Аня?

3. В квадрате 5x5 вырезан центральный квадрат 1x1. Разрежьте полученную фигуру по сторонам квадратов на 4 равные части. Найдите 5 разных способов.



4. Саша и Коля играли в баскетбол. Саша из 10 бросков имел 6 попаданий в кольцо, а Коля из 8 бросков имел 5 попаданий. Чей результат лучше?

5. *Задача С.А. Рачинского.* В школе равное число девочек и мальчиков. Я принес 234 ореха, и каждому мальчику досталось по 5 орехов, каждой девочке по 4 ореха. Но девочки обиделись, и в другой раз я принес столько орехов, что всем досталось по 6. Сколько орехов я принес?

Лист 5

1. На сколько нулей заканчивается произведение первых 100 натуральных чисел?

2. Аня, Вера и Галя ели конфеты. Аня и Вера съели на 11 конфет больше Гали, а Аня и Галя — на 7 конфет больше Веры. Сколько конфет съела Аня?

3. В квадрате 5x5 вырезан центральный квадрат 1x1. Разрежьте полученную фигуру по сторонам квадратов на 4 равные части. Найдите 5 разных способов.



4. Саша и Коля играли в баскетбол. Саша из 10 бросков имел 6 попаданий в кольцо, а Коля из 8 бросков имел 5 попаданий. Чей результат лучше?

5. *Задача С.А. Рачинского.* В школе равное число девочек и мальчиков. Я принес 234 ореха, и каждому мальчику досталось по 5 орехов, каждой девочке по 4 ореха. Но девочки обиделись, и в другой раз я принес столько орехов, что всем досталось по 6. Сколько орехов я принес?

Лист 5

1. На сколько нулей заканчивается произведение первых 100 натуральных чисел?

2. Аня, Вера и Галя ели конфеты. Аня и Вера съели на 11 конфет больше Гали, а Аня и Галя — на 7 конфет больше Веры. Сколько конфет съела Аня?

3. В квадрате 5x5 вырезан центральный квадрат 1x1. Разрежьте полученную фигуру по сторонам квадратов на 4 равные части. Найдите 5 разных способов.



4. Саша и Коля играли в баскетбол. Саша из 10 бросков имел 6 попаданий в кольцо, а Коля из 8 бросков имел 5 попаданий. Чей результат лучше?

5. *Задача С.А. Рачинского.* В школе равное число девочек и мальчиков. Я принес 234 ореха, и каждому мальчику досталось по 5 орехов, каждой девочке по 4 ореха. Но девочки обиделись, и в другой раз я принес столько орехов, что всем досталось по 6. Сколько орехов я принес?