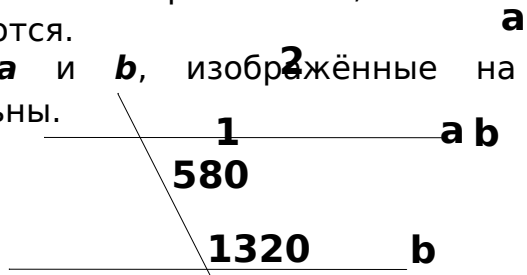
Вариант 1

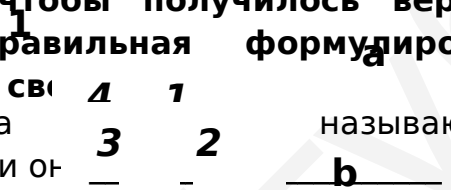
Установите, истины или ложны следующие утверждения.

1. Если прямая пересекает одну из двух параллельных прямых, то она пересекает и другую.
2. Если две прямые пересечены секущей, то накрест лежащие углы равны.
3. Два отрезка параллельны, если они не пересекаются.
4. Прямые ***a*** и ***b***, изображённые на чертеже параллельны.



5. Если при пересечении двух прямых секущей односторонние углы равны, то прямые параллельны.

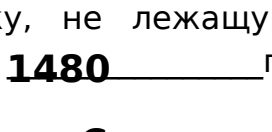
Заполните пропуски, чтобы получилось верное утверждение или правильная формулировка определения, теоремы, св



6. Две прямые на _____ называются параллельными, если он_____ .
7. При пересечении дву_____ых секущей образуются пары _____ветственных углов_____ .



8. Через точку, не лежащую на данной прямой проходит, _____прямая, параллельная данной.



9. Если при пересечении двух прямых секущей сумма _____ равна 180^0, то прямые параллельны.
10. Если при пересечении двух прямых секущей накрест лежащие углы равны, то прямые _____.

Из предложенных вариантов ответов выберите верный.

11. На чертеже пря**2** и ***в*** параллельны. $\angle 2=55^0$. Найдите $\angle 1$.



А) 55^0 Б) 125^0 В) 135^0

12. На чертеже прямые ***a*** и ***в*** параллельны. $\angle 1+\angle 2=110^0$. Найдите $\angle 1$.

А) 52^0 Б) 55^0 В) 70^0

13. На чертеже прямые ***a*** ***a*** ***в*** ***b*** ллельны. $\angle 1=80^0$. Найти $\angle 2$.



А) 80^0 Б) 100^0 В) 110^0

14. На чертеже прямые ***a*** и ***в*** параллельны. Угол 2 в два раза меньше угла 3. Найдите угол 1.

А) 60^0 Б) 120^0 В) 70^0

15. По данным чертежа найти угол ADC, если AD-биссектриса угла CAF.

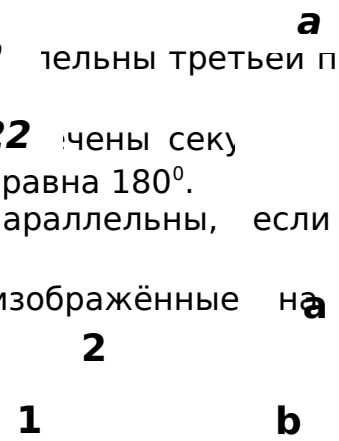
ЯУбоев.РФ

А) 64^0 Б) 106^0 В) 74^0

Вариант 2

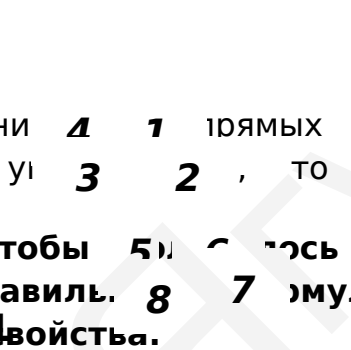
Установите, истины или ложны следующие утверждения.

1. Если две прямые ***a*** и ***b*** параллельны третьей прямой, то они параллельны
2. Если две прямые ***a*** и ***b*** пересечены секущей ***c***, то сумма односторонних углов равна 180^0.
3. Луч и отрезок параллельны, если они не пересекаются.
4. Прямые ***a*** и ***b***, изображённые на чертеже параллельны.



5. Если при пересечении прямых ***a*** и ***b*** секущей ***c*** соответственные углы ***1*** и ***2***, то прямые параллельны.

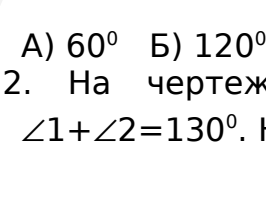
Заполните пропуски, чтобы было верное утверждение или правильная формулировка определения, теоремы, свойства.



6. Два отрезка на плоскости называются параллельными, если они лежат _____ .
7. При пересечении двух прямых секущей образуются пары накрест лежащих углов_____ .
8. Через точку, не лежащую на данной прямой проходит, только одна прямая, _____ данной.
9. Если при пересечении двух прямых секущей сумма односторонних равна _____, то прямые параллельны.
10. Если при пересечении двух прямых ***a*** и ***b*** секущей ***c*** накрест лежащие углы ***1*** и ***2*** равны, то прямые _____.

Из предложенных вариантов ответов выберите верный.

11. На чертеже прямые ***a*** и ***в*** параллельны. $\angle 1=60^0$. Найдите $\angle 2$.



А) 60^0 Б) 120^0 В) 140^0

12. На чертеже прямые ***a*** и ***в*** параллельны. $\angle 1+\angle 2=130^0$. Найдите $\angle 1$.

А) 50^0 Б) 65^0 В) 70^0

13. На чертеже прямые ***a*** и ***в*** параллельны. $\angle 1=70^0$. Найти $\angle 2$.

А) 70^0 Б) 100^0 В) 110^0

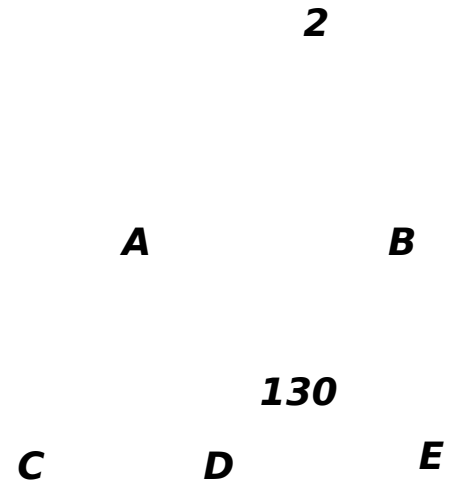
14. На чертеже прямые ***a*** и ***в*** параллельны. Угол 3 в два раза больше угла 2. Найдите угол 1.

ЭТУБООВ.РФ

А) 60^0 Б) 120^0 В) 70^0

15. По данным чертежа найти угол ACD, если AB параллельна CE и AD- биссектриса угла BAC.

А) 80^0 Б) 100^0 В) 50^0



Ягубов.рф