Контрольна робота № 2

І варіант

1. Розклади на розрядні доданки числа: 935, 670, 403.

2. Обчисліть приклади.

300 + 20 = _____ 888 – 80 = _____

500 + 7 = _____ 666-6= _____

8˙ 8-9˙ 4 = _____ 72:8 + 36:4 = _____

300 + 70 + 8= _____ 100 -20: (6-1)= _____

3. Порівняйте вирази.

5м60 см ☐ 5 м 06 см 70 мм+30 мм ☐ 1 дм


6 ц ☐ 400 кг 40 ц – 20 ц ☐ 3 т

4. Розв'яжіть задачу.


Фермер привіз на базар **5** ящиків яблук, по **8** кг у кожному, і **7** ящиків груш, по **7** кг у кожному. Скільки всього кілограмів фруктів привіз фермер на базар?

5. Розв’яжи рівняння.

x	+	*2*	*0*	=	*7*	*5*					*x*	-	*2*	*4*	=	*4*	*8*											




6. **Накресли два відрізки: перший завдовжки 70 мм, а другий – на 5 мм коротший.**



Додаткове завдання


За 15 хвилин Оленка ліпить 25 вареників. Скільки вареників зліпить дівчинка за півгодини?



Контрольна робота № 2

ІІ варіант

1. **Розклади на розрядні доданки числа: 852, 730, 506.**



2. **Обчисліть приклади.**

500 + 30 = _____	777 – 70 = _____
600 + 9 = _____	999 - 9= ____
8˙ 7-9˙6 = ____	56:8 + 32:4 = _____
400 + 60 + 9= _____	100 -24: (7-1)= _____


3. **Порівняйте вирази.**

6м50 см ☐ 6 м 05 см	40 мм+60 мм ☐ 1 дм
8ц ☐ 400 кг	1000 кг – 20 о кг ☐ 8 ц

4. **Розв'яжіть задачу.**

Фермер привіз на базар **6** ящиків помідорів, по **9** кг у кожному, і **8** ящиків огірків,

по **7** кг у кожному. Скільки всього кілограмів овочів привіз фермер на базар?



5. Розв'яжи рівняння.

x + 50 = 65

x - 62 = 19

6. **Накресли два відрізки: перший завдовжки 80 мм, а другий – на 5 мм коротший.**

Додаткове завдання

Петрик за **15** с читає **23** слова. Скільки слів він прочитає за півхвилини?



ЯГУ60В.РФ